AURORE
Automatisation et rétroaction
Outils de renforcement
par exercices différenciés

Sciences – cahier 2

Chaînes alimentaires

version TEST sans solution

1. Les élèves prêts pour un test se réunissent et s'assoient dans un endroit isolé sans pouvoir tricher.

2. Le prof choisit des numéros d'exercices à faire.

3. Avec le livret d'exercices sans les solutions, l'élève répond sur une feuille, dans un temps raisonnable.

4. A la fin, les élèves s'échangent leurs feuilles pour les corriger.

5. Les élèves corrigent en rouge la feuille d'un camarade en s'aidant de la version avec solutions.

6. Le prof vérifie d'un rapide coup d'œil. Plus de 80 %, le test est réussi. Sinon, il sera repassé après entraînement.

Allagi
Enseignons.be
school up
Cofinancé par le programme Erasmus+ de l'Union européenne

module I : chaînes simples

3

niv.1	Vocabulaire commun
niv.2	Vocabulaire scientifique

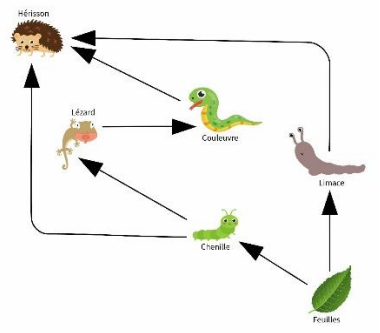

module II : chaînes complexes

14

niv.1	Vocabulaire commun
niv.2	Vocabulaire scientifique

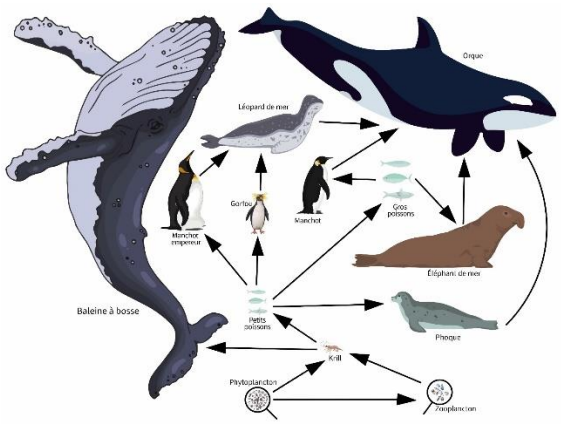

Module 1, chaîne 1

Observe la chaine alimentaire et trouve:

niv 1 repère :	1. un végétal 5. un omnivore	2. un animal 6. une proie	3. un herbivore 7. un prédateur	4. un carnivore

niv 2 repère :	1. un producteur 5. un polyphage 8. signification de la flèche	2. un consommateur 6. une proie 9. chaîne à 3 maillons	3. un phytophage 7. un prédateur 10. milieu	4. un zoophage

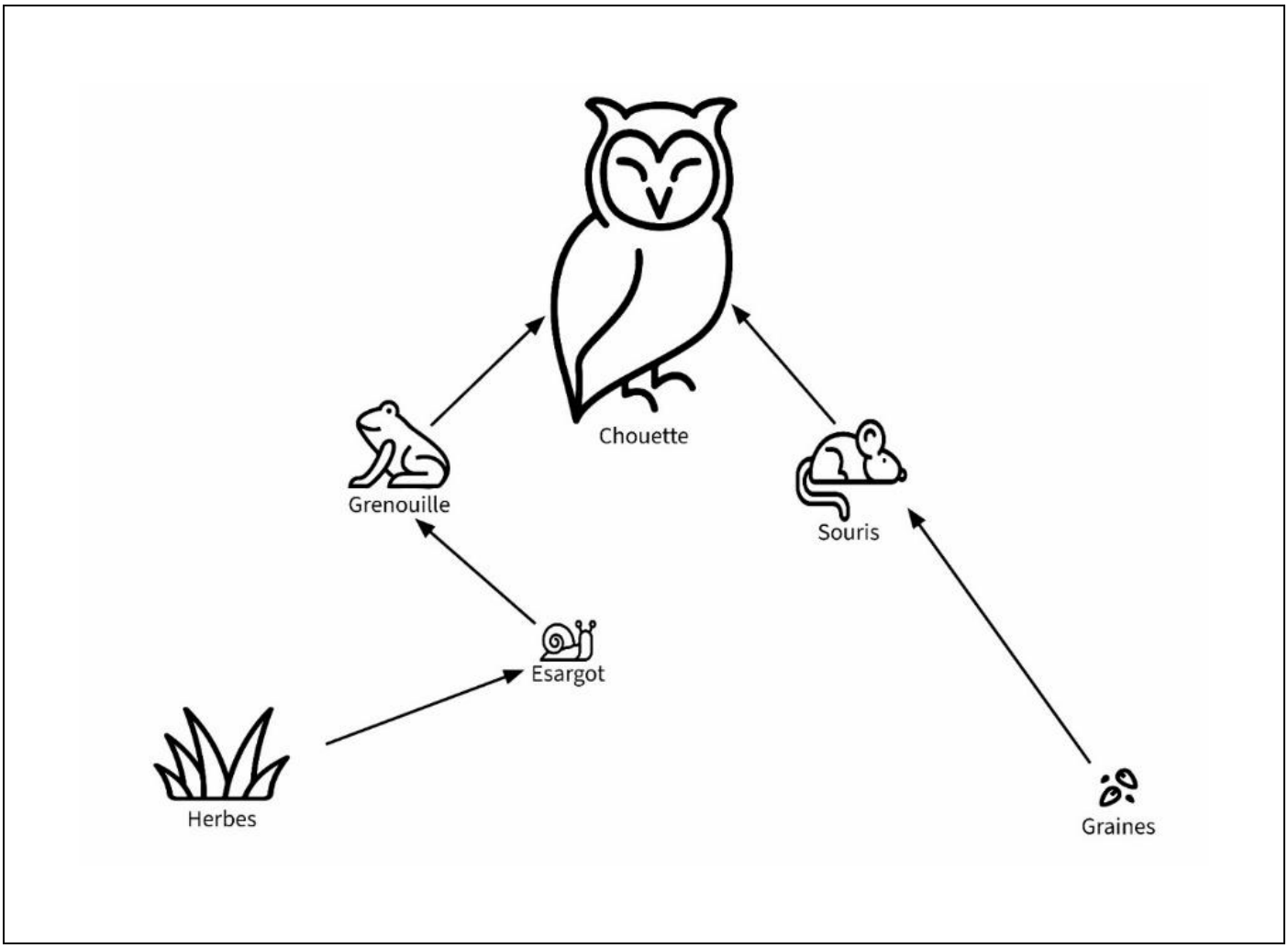

Module 1, chaîne 2

Observe la chaine alimentaire et trouve:

niv 1 repère :	1. un végétal 5. un omnivore	2. un animal 6. une proie	3. un herbivore 7. un prédateur	4. un carnivore

niv 2 repère :	1. un producteur 5. un polyphage 8. signification de la flèche	2. un consommateur 6. une proie 9. chaîne à 3 maillons	3. un phytophage 7. un prédateur 10. milieu	4. un zoophage

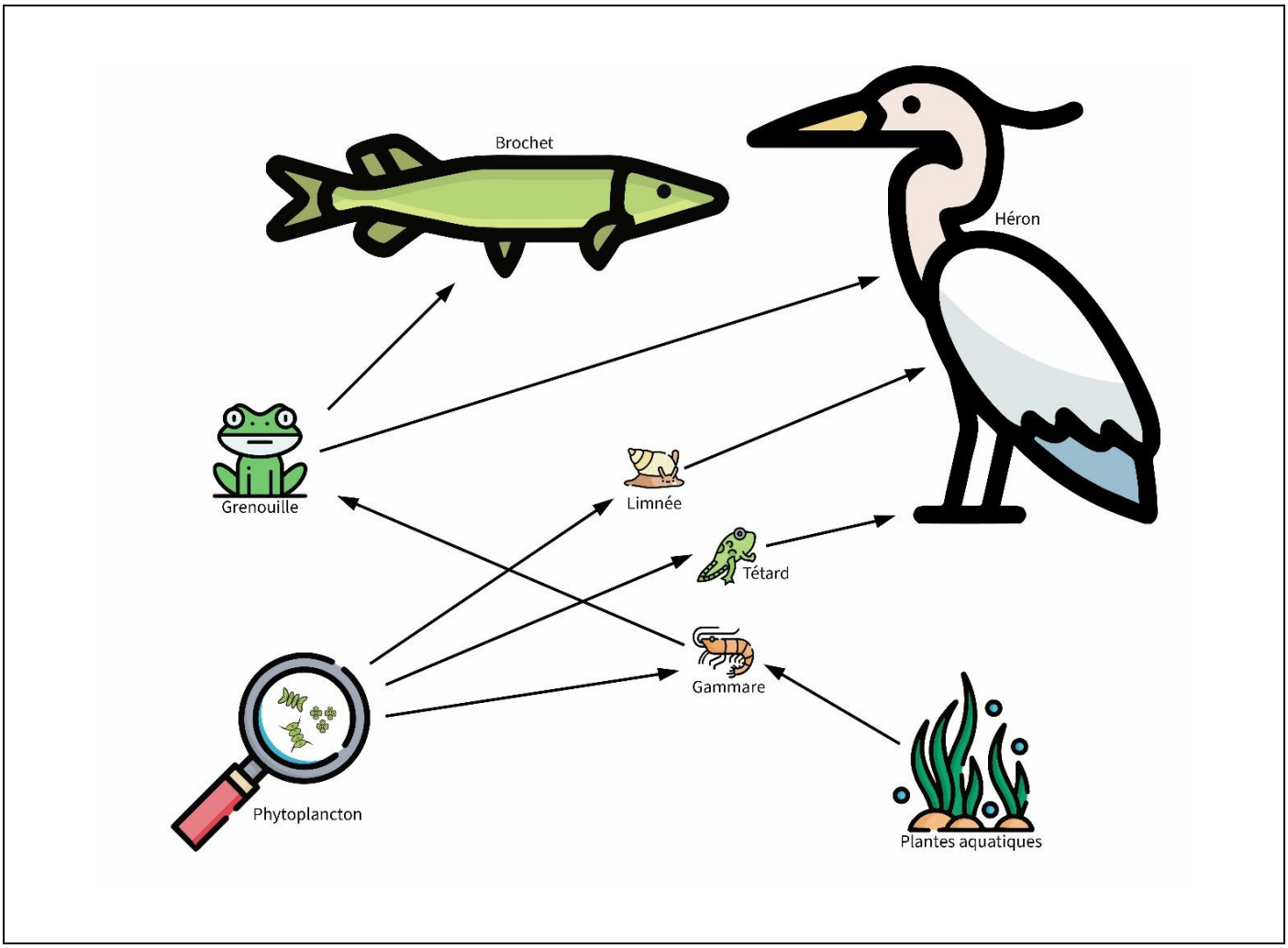

Module 1, chaîne 3

Observe la chaine alimentaire et trouve:

niv 1 repère :	1. un végétal 5. un omnivore	2. un animal 6. une proie	3. un herbivore 7. un prédateur	4. un carnivore

niv 2 repère :	1. un producteur 5. un polyphage 8. signification de la flèche	2. un consommateur 6. une proie 9. chaîne à 3 maillons	3. un phytophage 7. un prédateur 10. milieu	4. un zoophage

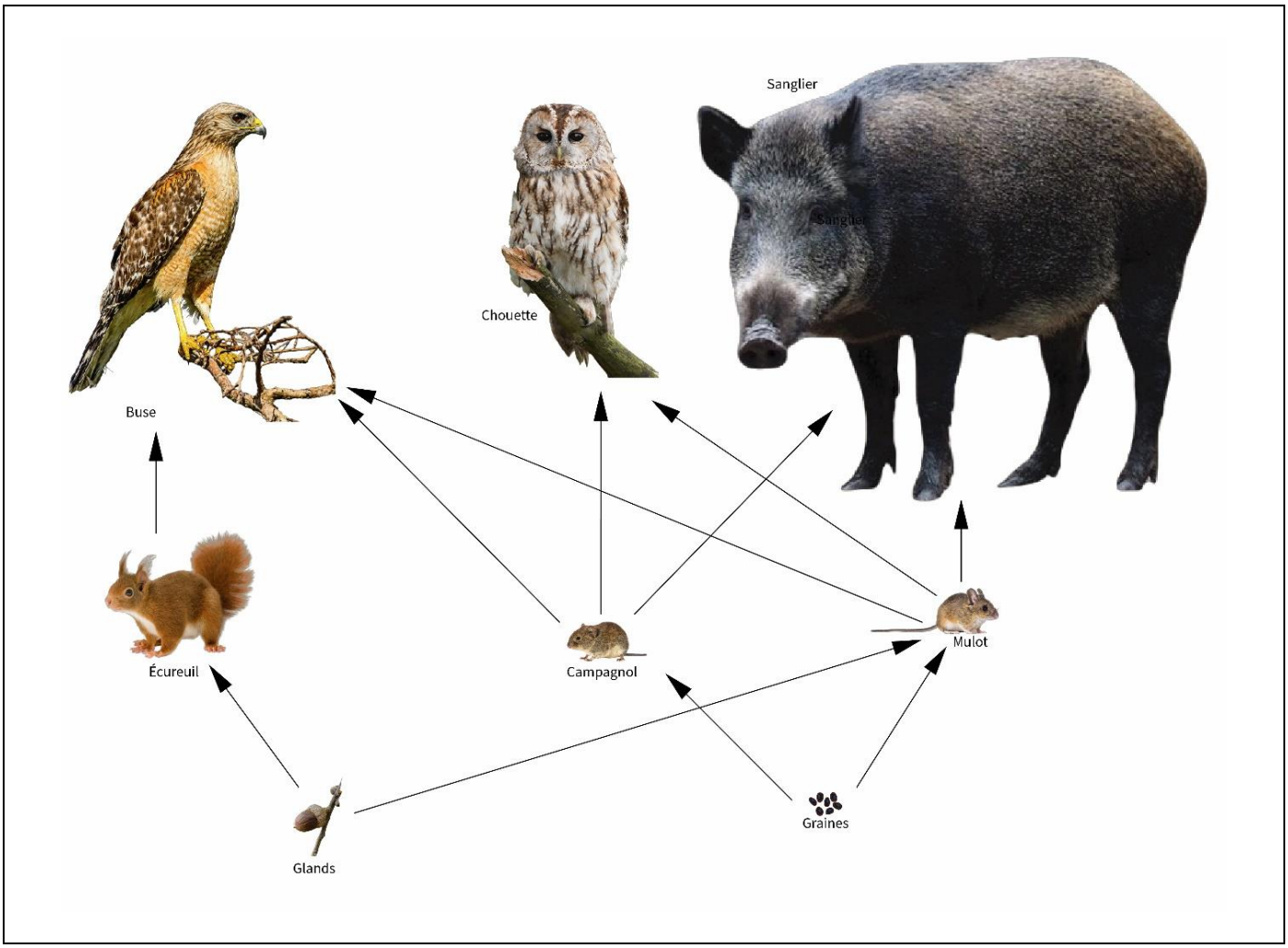

Module 1, chaîne 4

Observe la chaine alimentaire et trouve:

niv 1 repère :	1. un végétal 5. un omnivore	2. un animal 6. une proie	3. un herbivore 7. un prédateur	4. un carnivore

niv 2 repère :	1. un producteur 5. un polyphage 8. signification de la flèche	2. un consommateur 6. une proie 9. chaîne à 3 maillons	3. un phytophage 7. un prédateur 10. milieu	4. un zoophage

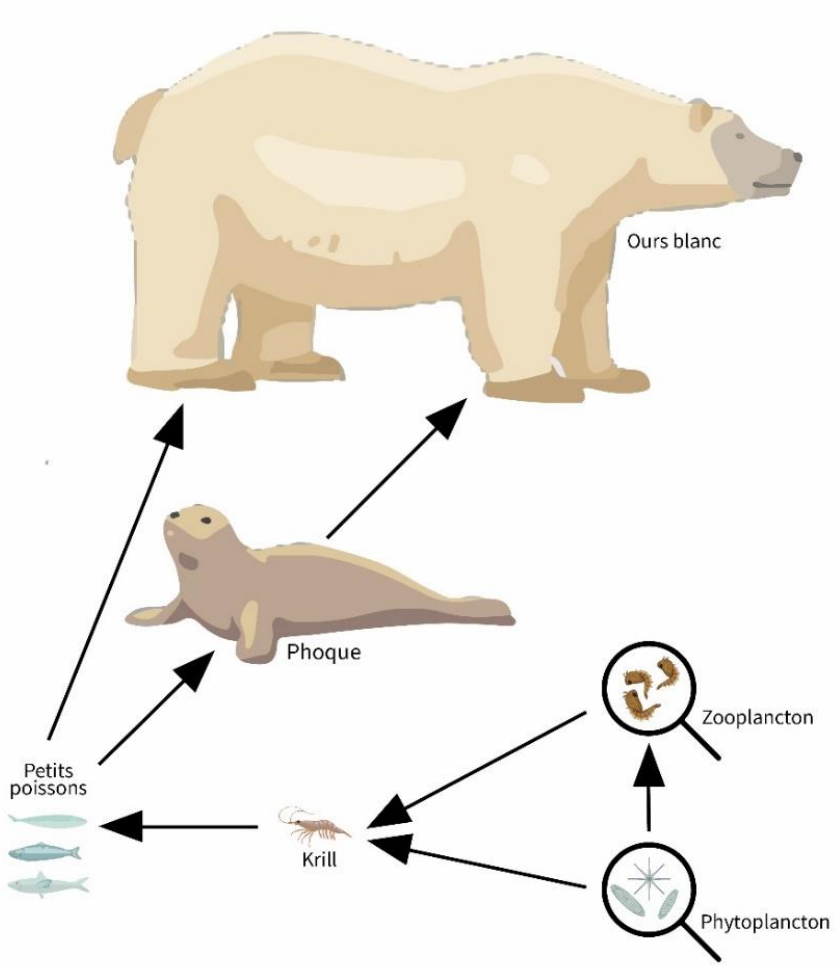

Module 1, chaîne 5

Observe la chaine alimentaire et trouve:

niv 1 repère :	1. un végétal 5. un omnivore	2. un animal 6. une proie	3. un herbivore 7. un prédateur	4. un carnivore

niv 2 repère :	1. un producteur 5. un polyphage 8. signification de la flèche	2. un consommateur 6. une proie 9. chaîne à 3 maillons	3. un phytophage 7. un prédateur 10. milieu	4. un zoophage

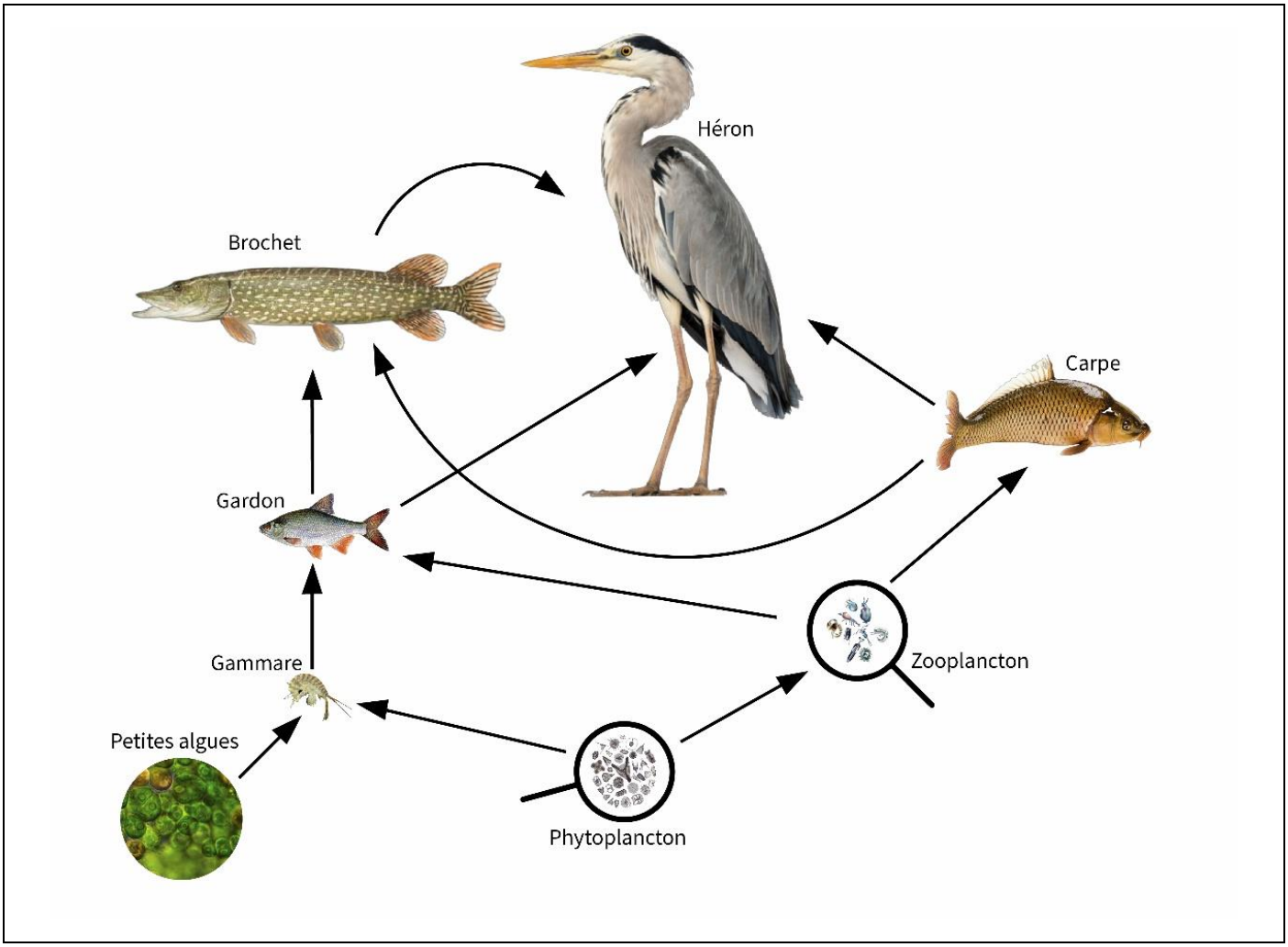

Module 1, chaîne 6

Observe la chaine alimentaire et trouve:

niv 1 repère :	1. un végétal 5. un omnivore	2. un animal 6. une proie	3. un herbivore 7. un prédateur	4. un carnivore

niv 2 repère :	1. un producteur 5. un polyphage 8. signification de la flèche	2. un consommateur 6. une proie 9. chaîne à 3 maillons	3. un phytophage 7. un prédateur 10. milieu	4. un zoophage

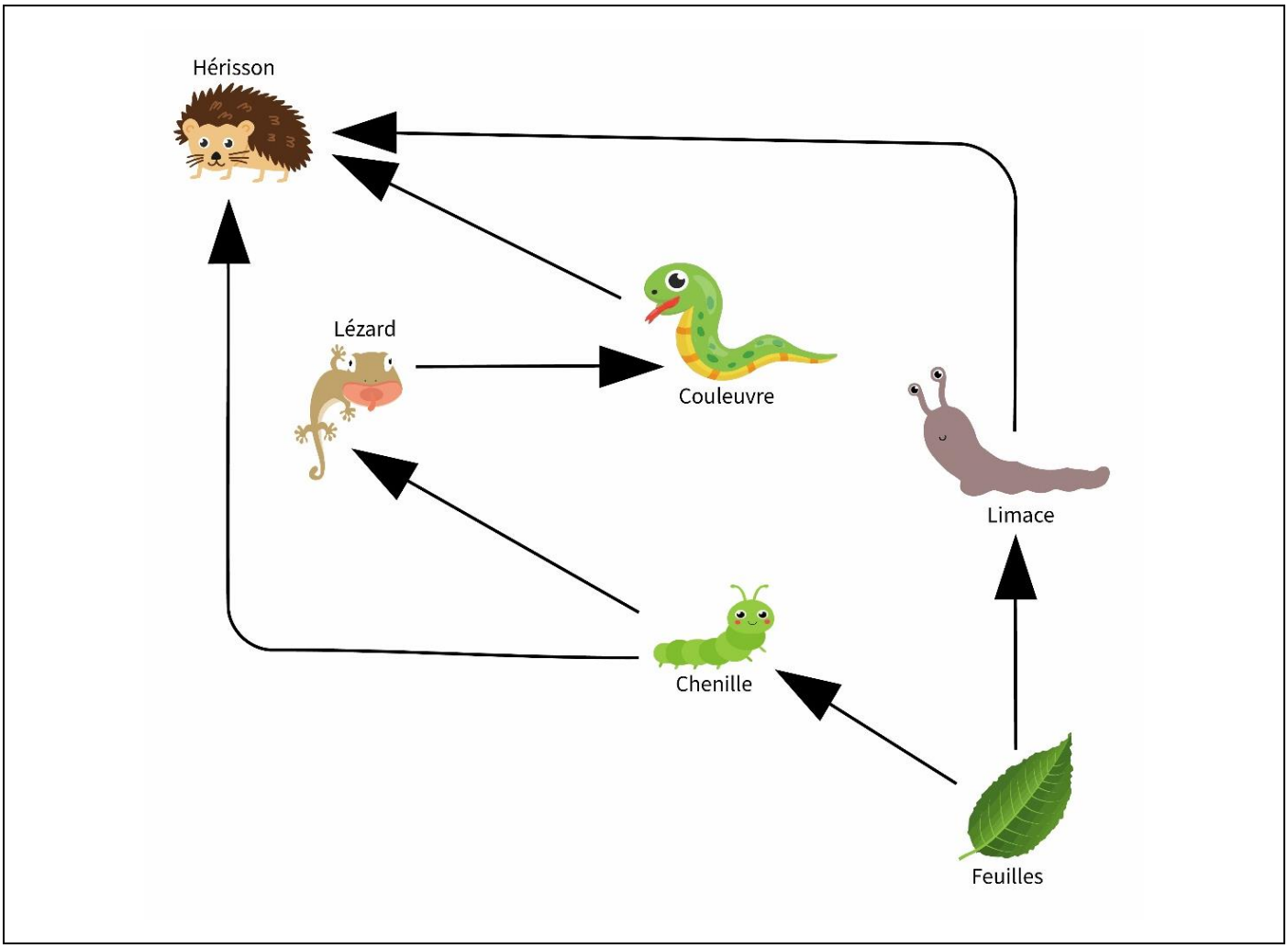

Module 1, chaîne 7

Observe la chaine alimentaire et trouve:

niv 1 repère :	1. un végétal 5. un omnivore	2. un animal 6. une proie	3. un herbivore 7. un prédateur	4. un carnivore

niv 2 repère :	1. un producteur 5. un polyphage 8. signification de la flèche	2. un consommateur 6. une proie 9. chaîne à 3 maillons	3. un phytophage 7. un prédateur 10. milieu	4. un zoophage

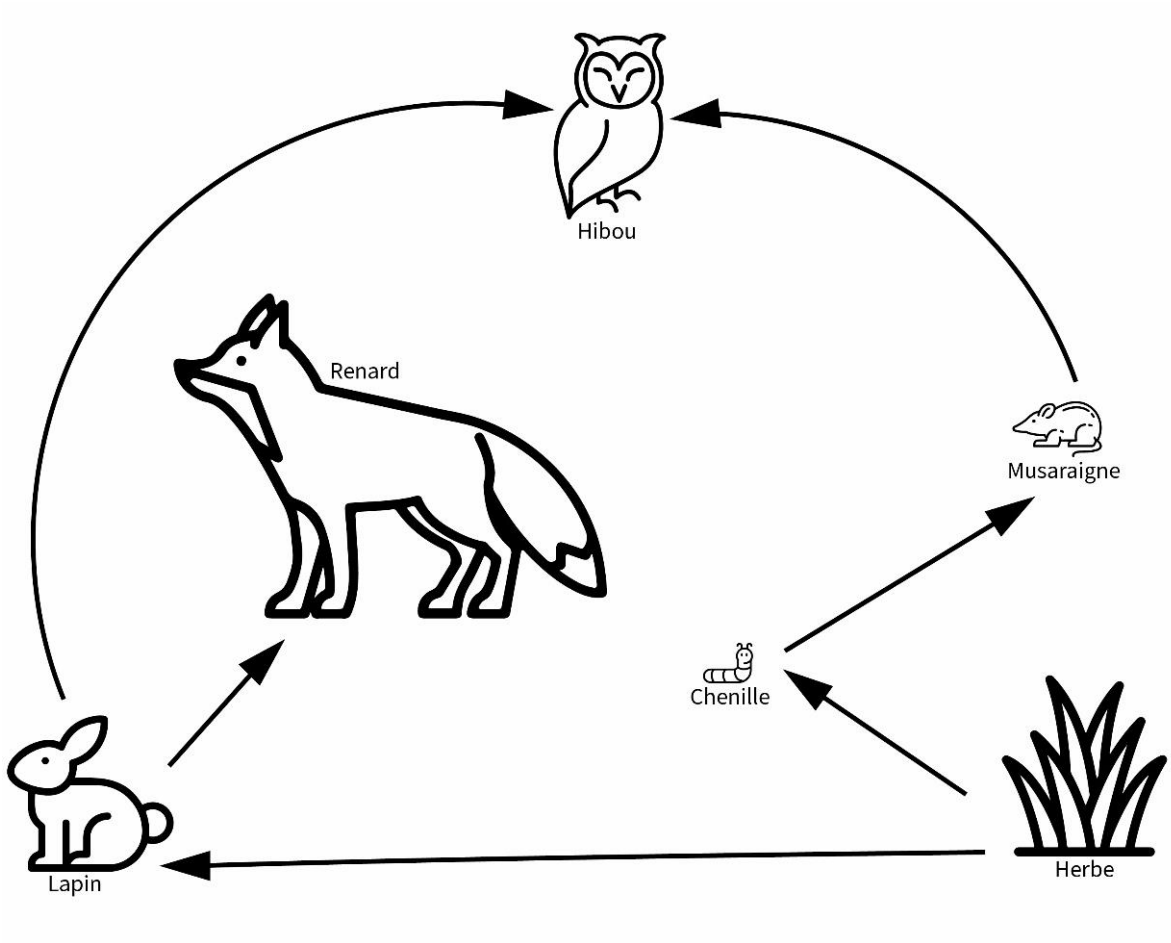

Module 1, chaîne 8

Observe la chaine alimentaire et trouve:

niv 1 repère :	1. un végétal 5. un omnivore	2. un animal 6. une proie	3. un herbivore 7. un prédateur	4. un carnivore

niv 2 repère :	1. un producteur 5. un polyphage 8. signification de la flèche	2. un consommateur 6. une proie 9. chaîne à 3 maillons	3. un phytophage 7. un prédateur 10. milieu	4. un zoophage

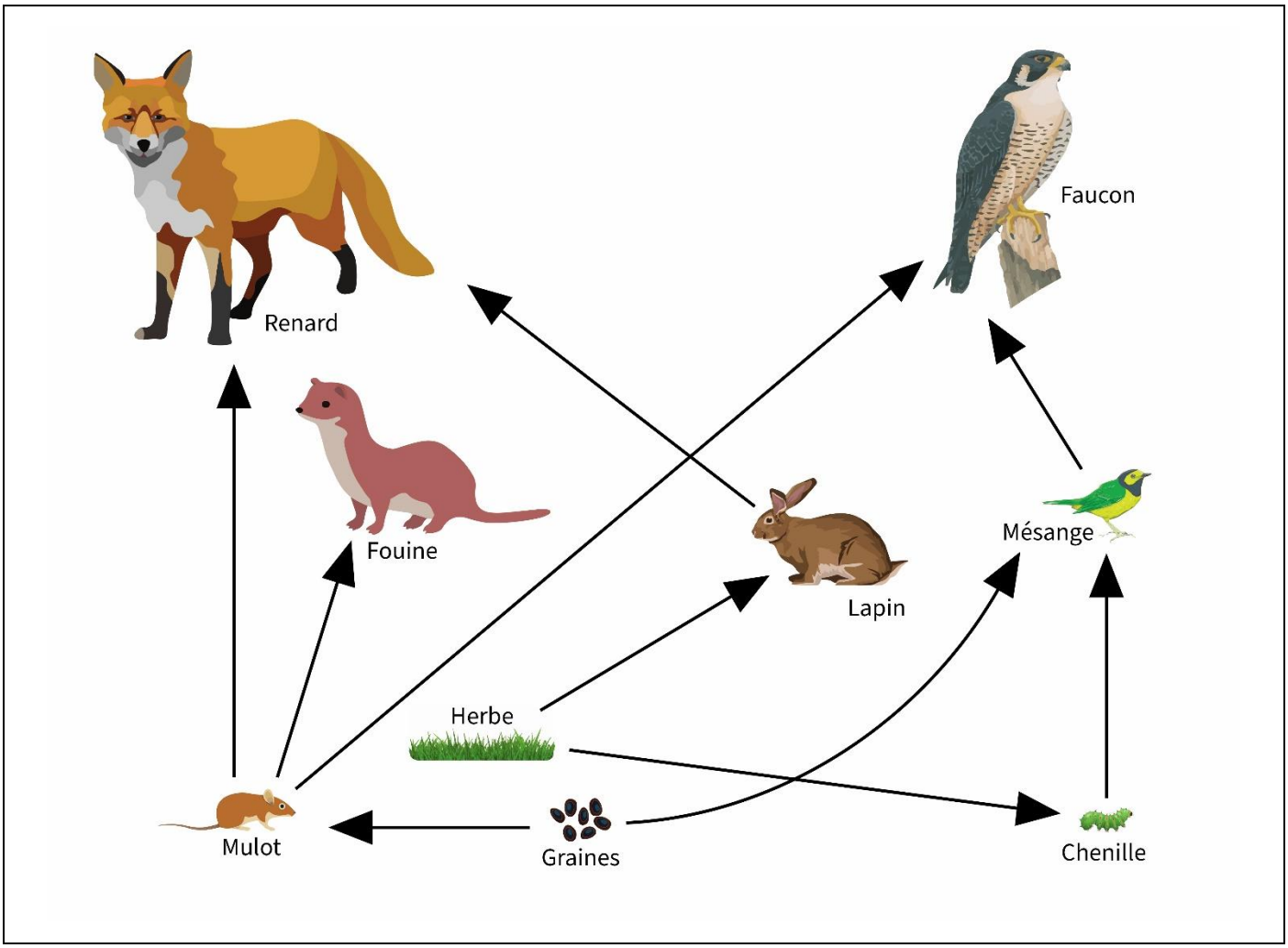

Module 1, chaîne 9

Observe la chaine alimentaire et trouve:

niv 1 repère :	1. un végétal 5. un omnivore	2. un animal 6. une proie	3. un herbivore 7. un prédateur	4. un carnivore

niv 2 repère :	1. un producteur 5. un polyphage 8. signification de la flèche	2. un consommateur 6. une proie 9. chaîne à 3 maillons	3. un phytophage 7. un prédateur 10. milieu	4. un zoophage

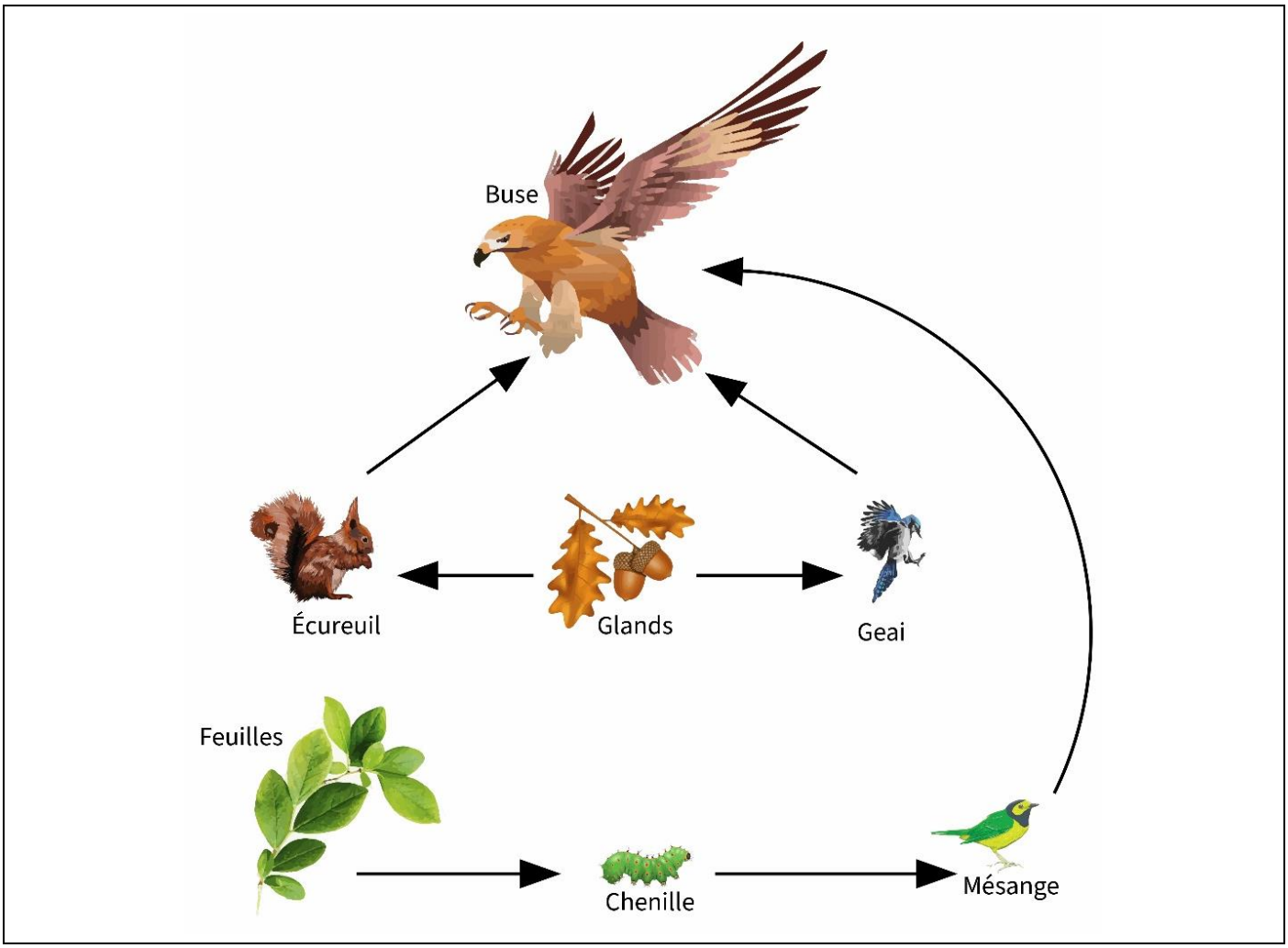

Module 1, chaîne 10

Observe la chaine alimentaire et trouve:

niv 1 repère :	1. un végétal 5. un omnivore	2. un animal 6. une proie	3. un herbivore 7. un prédateur	4. un carnivore

niv 2 repère :	1. un producteur 5. un polyphage 8. signification de la flèche	2. un consommateur 6. une proie 9. chaîne à 3 maillons	3. un phytophage 7. un prédateur 10. milieu	4. un zoophage

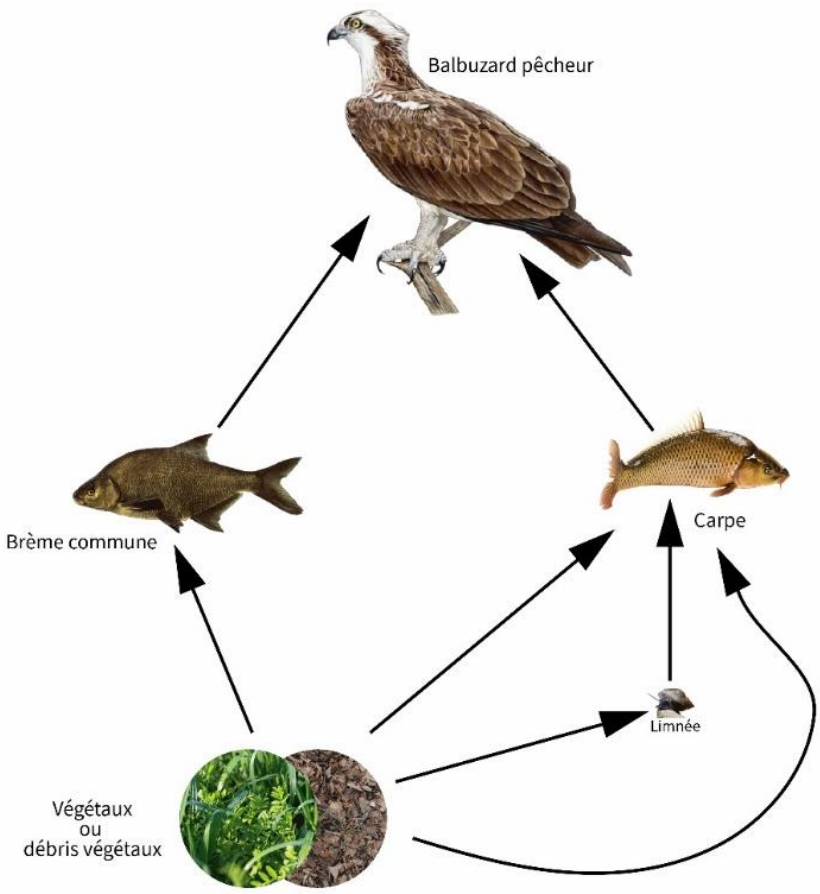

Module 1, chaîne 11

Observe la chaine alimentaire et trouve:

niv 1 repère :	1. un végétal	2. un animal	3. un herbivore	4. un carnivore
	5. un omnivore	6. une proie	7. un prédateur	

niv 2 repère :	1. un producteur	2. un consommateur	3. un phytophage	4. un zoophage
	5. un polyphage	6. une proie	7. un prédateur	
	8. signification de la flèche	9. chaîne à 3 maillons	10. milieu	

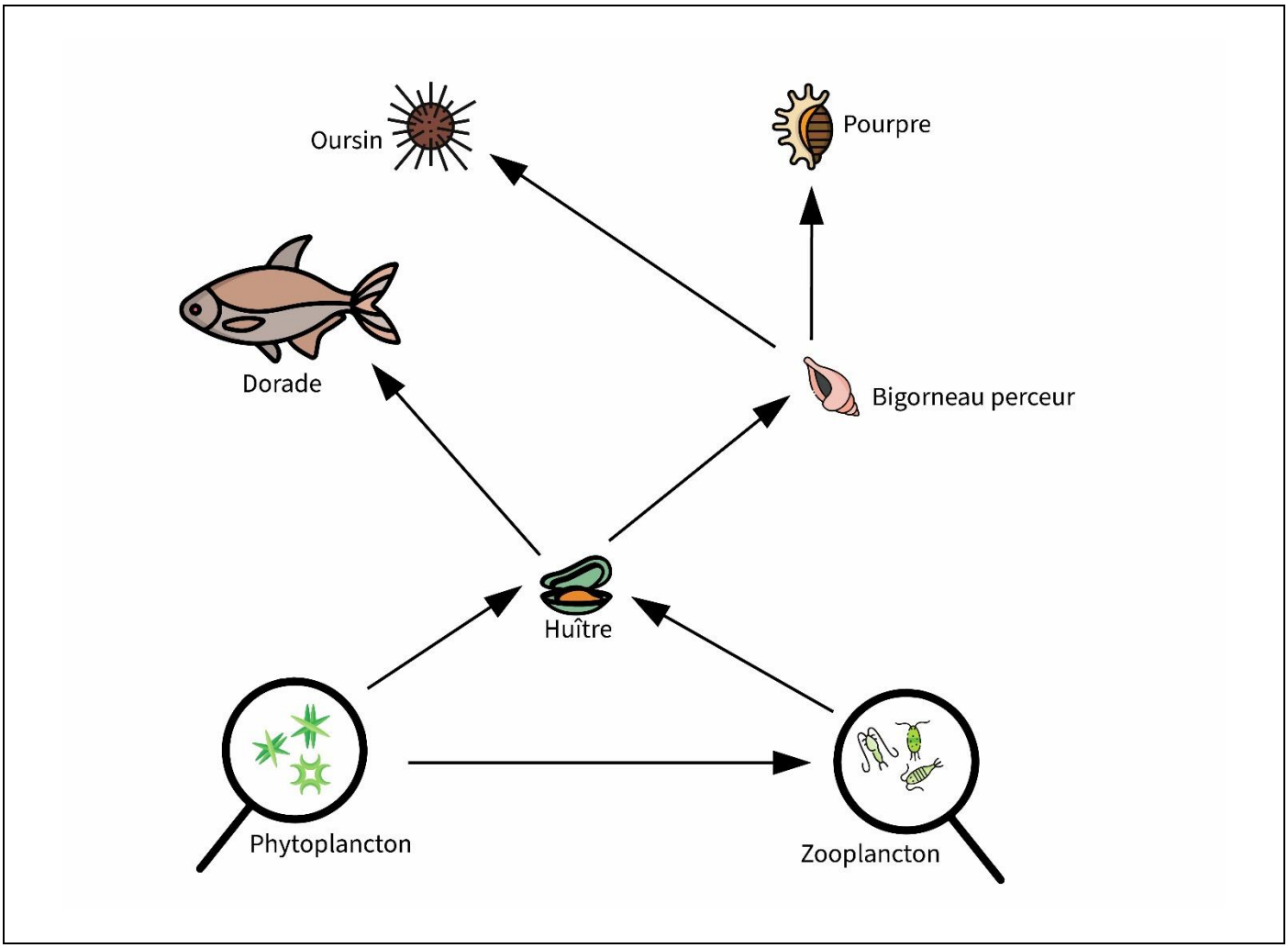

Module 2, chaîne 1

Observe la chaine alimentaire et trouve:

niv 1 repère :	1. un végétal	2. un animal	3. un herbivore	4. un carnivore
	5. un omnivore	6. une proie	7. un prédateur	

niv 2 repère :	1. un producteur	2. un consommateur	3. un phytophage	4. un zoophage
	5. un polyphage	6. une proie	7. un prédateur	8. signification de la flèche
	9. chaîne à 4 maillons	10. maillon commun à deux chaînes	11. deux concurrents	12. milieu

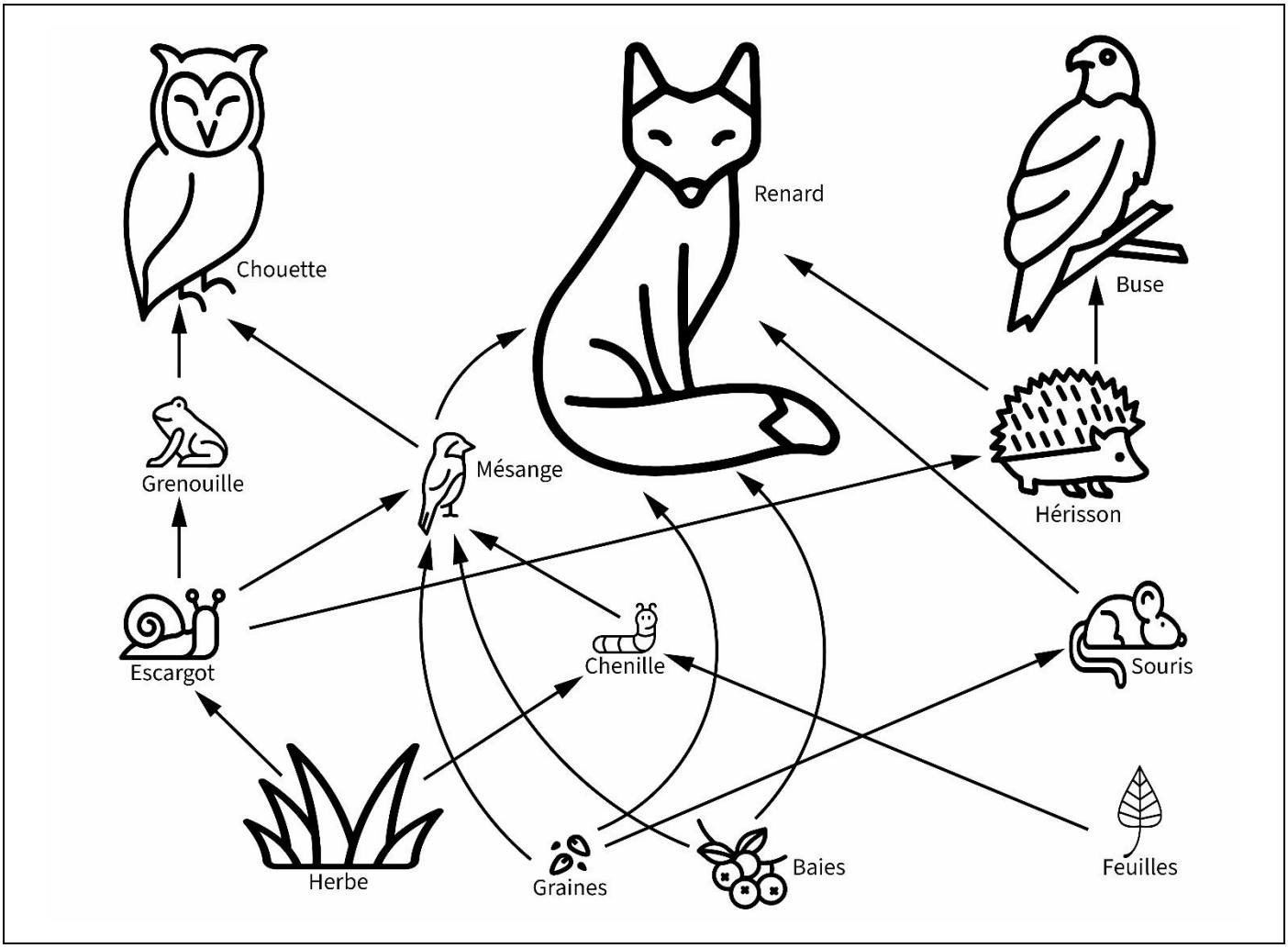

Module 2, chaîne 2

Observe la chaine alimentaire et trouve:

niv 1 repère :	1. un végétal	2. un animal	3. un herbivore	4. un carnivore
	5. un omnivore	6. une proie	7. un prédateur	

niv 2 repère :	1. un producteur	2. un consommateur	3. un phytophage	4. un zoophage
	5. un polyphage	6. une proie	7. un prédateur	8. signification de la flèche
	9. chaîne à 4 maillons	10. maillon commun à deux chaînes	11. deux concurrents	12. milieu

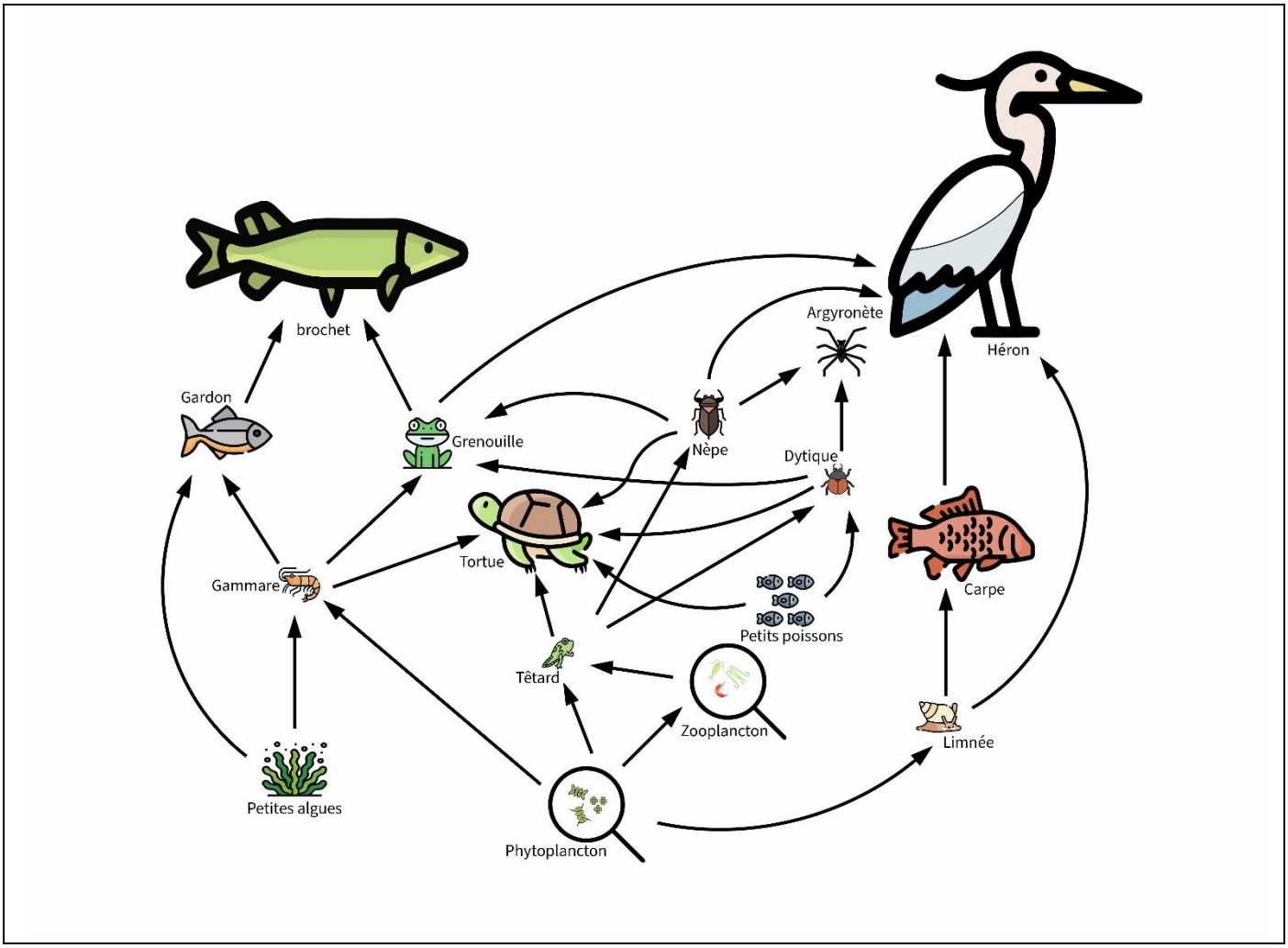

Module 2, chaîne 3

Observe la chaine alimentaire et trouve:

niv 1 repère :	1. un végétal 5. un omnivore	2. un animal 6. une proie	3. un herbivore 7. un prédateur	4. un carnivore

niv 2 repère :	1. un producteur 5. un polyphage 9. chaîne à 4 maillons	2. un consommateur 6. une proie 10. maillon commun à deux chaînes	3. un phytophage 7. un prédateur 11. deux concurrents	4. un zoophage 8. signification de la flèche 12. milieu

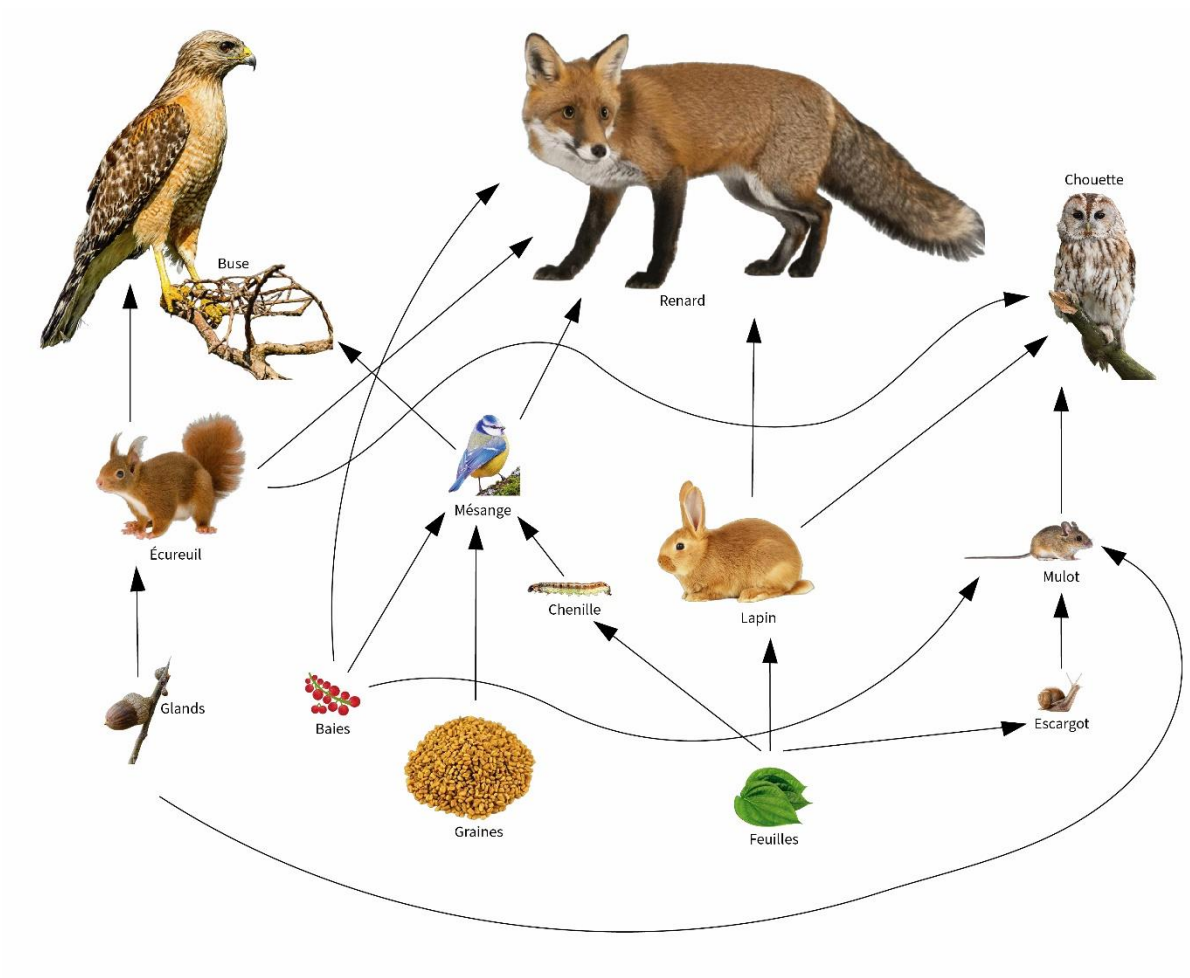

Module 2, chaîne 4

Observe la chaine alimentaire et trouve:

niv 1 repère :	1. un végétal	2. un animal	3. un herbivore	4. un carnivore
	5. un omnivore	6. une proie	7. un prédateur	

niv 2 repère :	1. un producteur	2. un consommateur	3. un phytophage	4. un zoophage
	5. un polyphage	6. une proie	7. un prédateur	8. signification de la flèche
	9. chaîne à 4 maillons	10. maillon commun à deux chaînes	11. deux concurrents	12. milieu

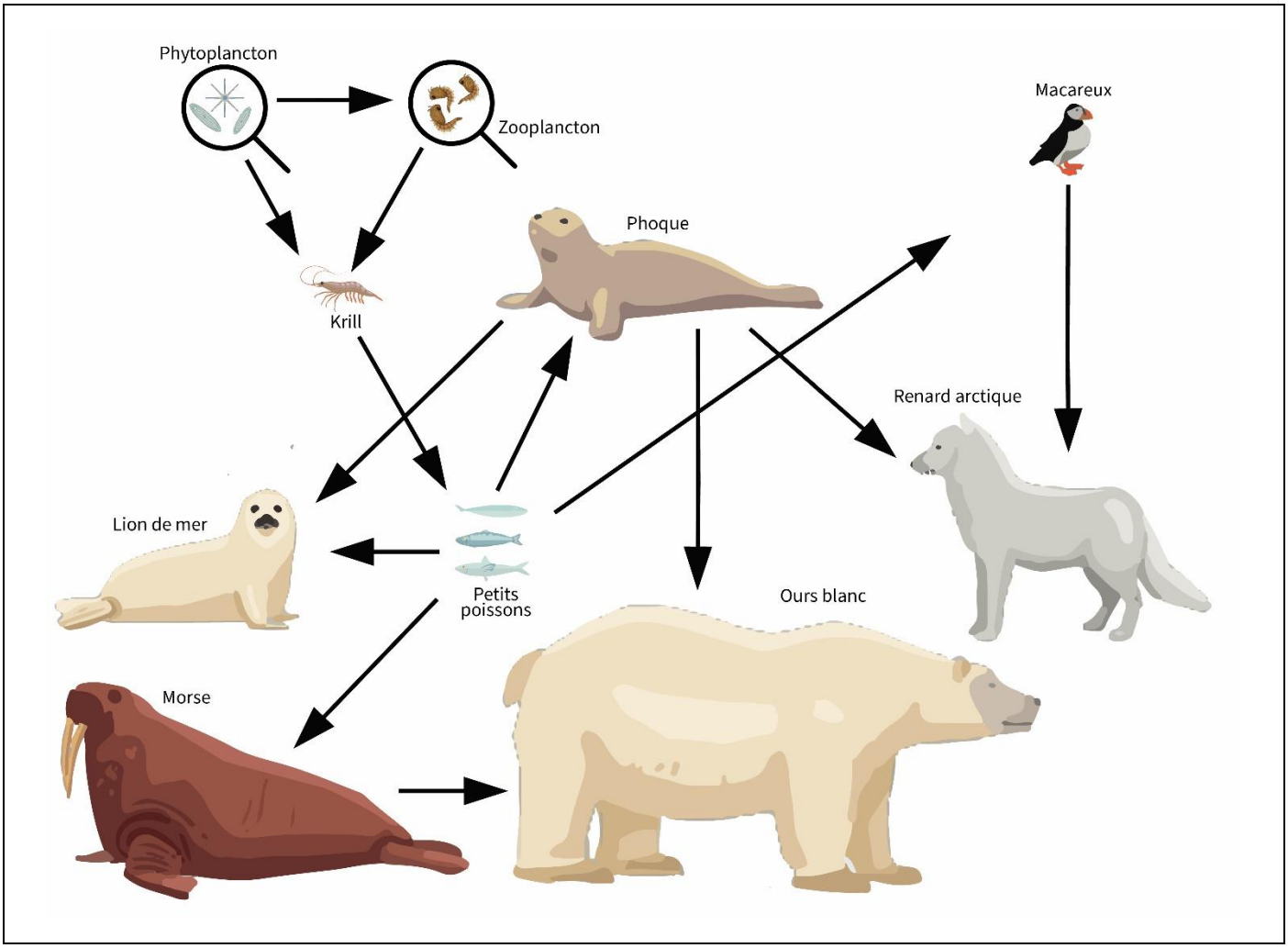

Module 2, chaîne 5

Observe la chaine alimentaire et trouve:

niv 1 repère :	1. un végétal 5. un omnivore	2. un animal 6. une proie	3. un herbivore 7. un prédateur	4. un carnivore

niv 2 repère :	1. un producteur 5. un polyphage 9. chaîne à 4 maillons	2. un consommateur 6. une proie 10. maillon commun à deux chaînes	3. un phytophage 7. un prédateur 11. deux concurrents	4. un zoophage 8. signification de la flèche 12. milieu

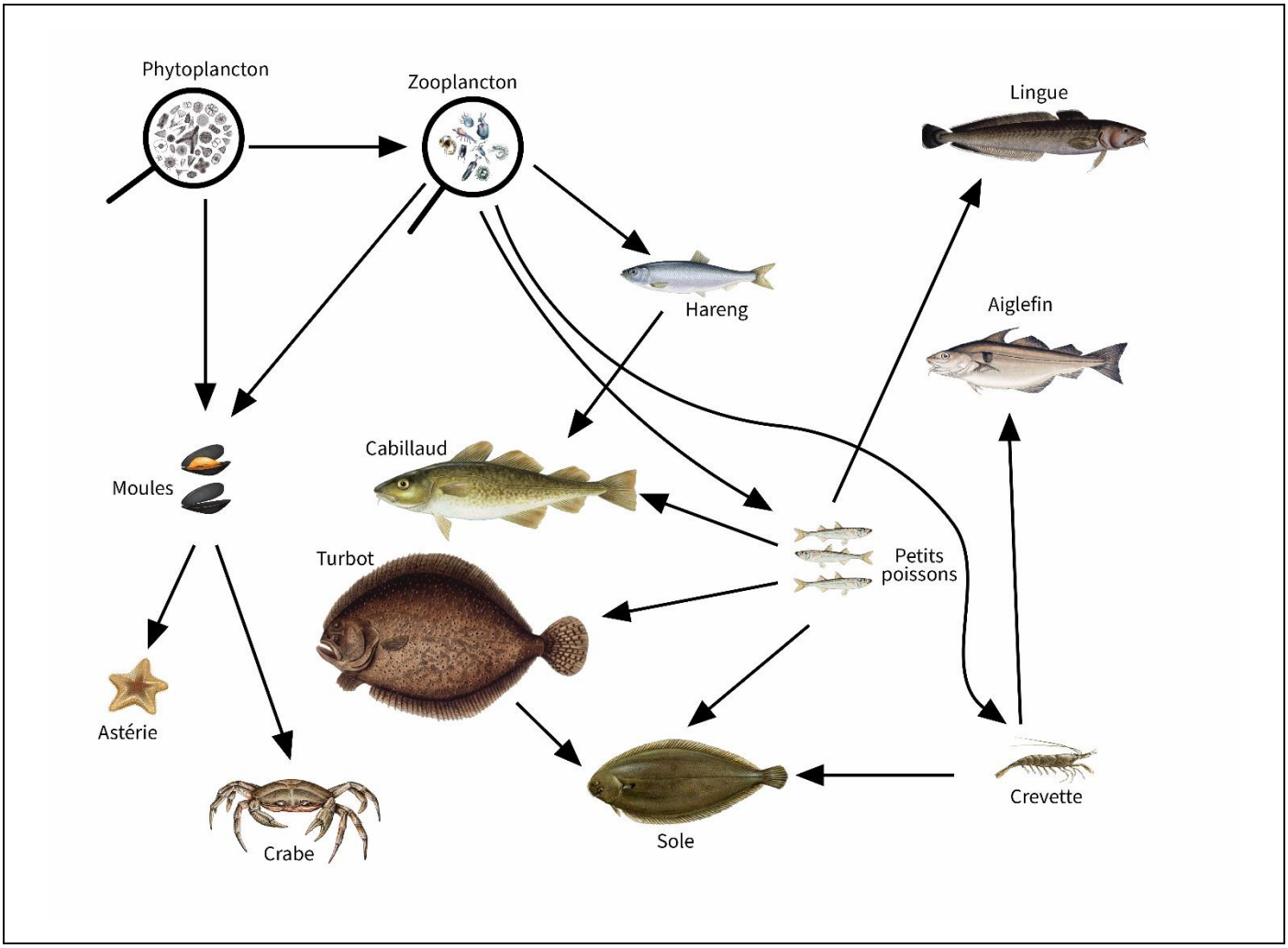

Module 2, chaîne 6

Observe la chaine alimentaire et trouve:

niv 1 repère :	1. un végétal	2. un animal	3. un herbivore	4. un carnivore
	5. un omnivore	6. une proie	7. un prédateur	

niv 2 repère :	1. un producteur	2. un consommateur	3. un phytophage	4. un zoophage
	5. un polyphage	6. une proie	7. un prédateur	8. signification de la flèche
	9. chaîne à 4 maillons	10. maillon commun à deux chaînes	11. deux concurrents	12. milieu

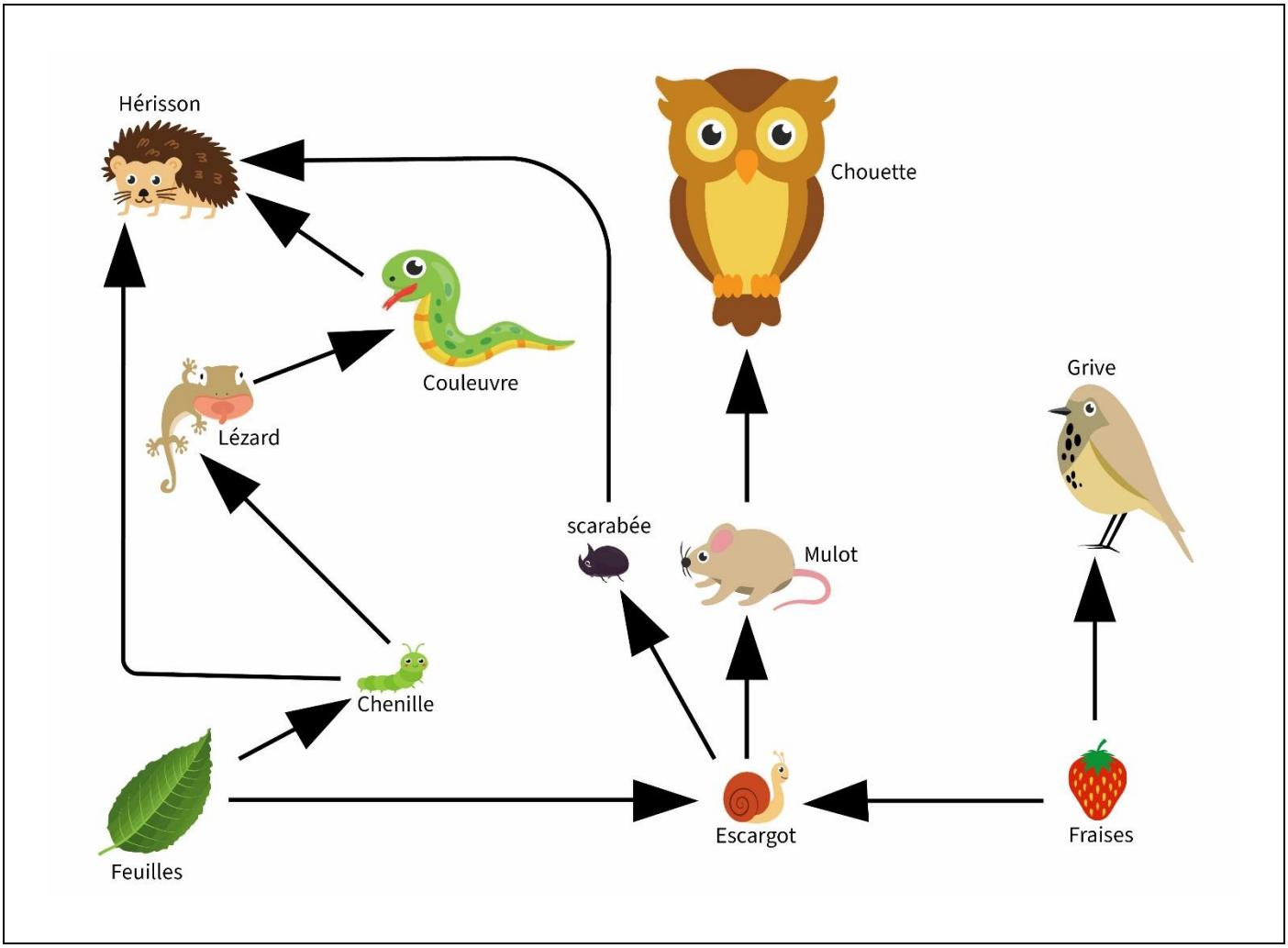

Module 2, chaîne 7

Observe la chaine alimentaire et trouve:

niv 1 repère :	1. un végétal	2. un animal	3. un herbivore	4. un carnivore
	5. un omnivore	6. une proie	7. un prédateur	

niv 2 repère :	1. un producteur	2. un consommateur	3. un phytophage	4. un zoophage
	5. un polyphage	6. une proie	7. un prédateur	8. signification de la flèche
	9. chaîne à 4 maillons	10. maillon commun à deux chaînes	11. deux concurrents	12. milieu

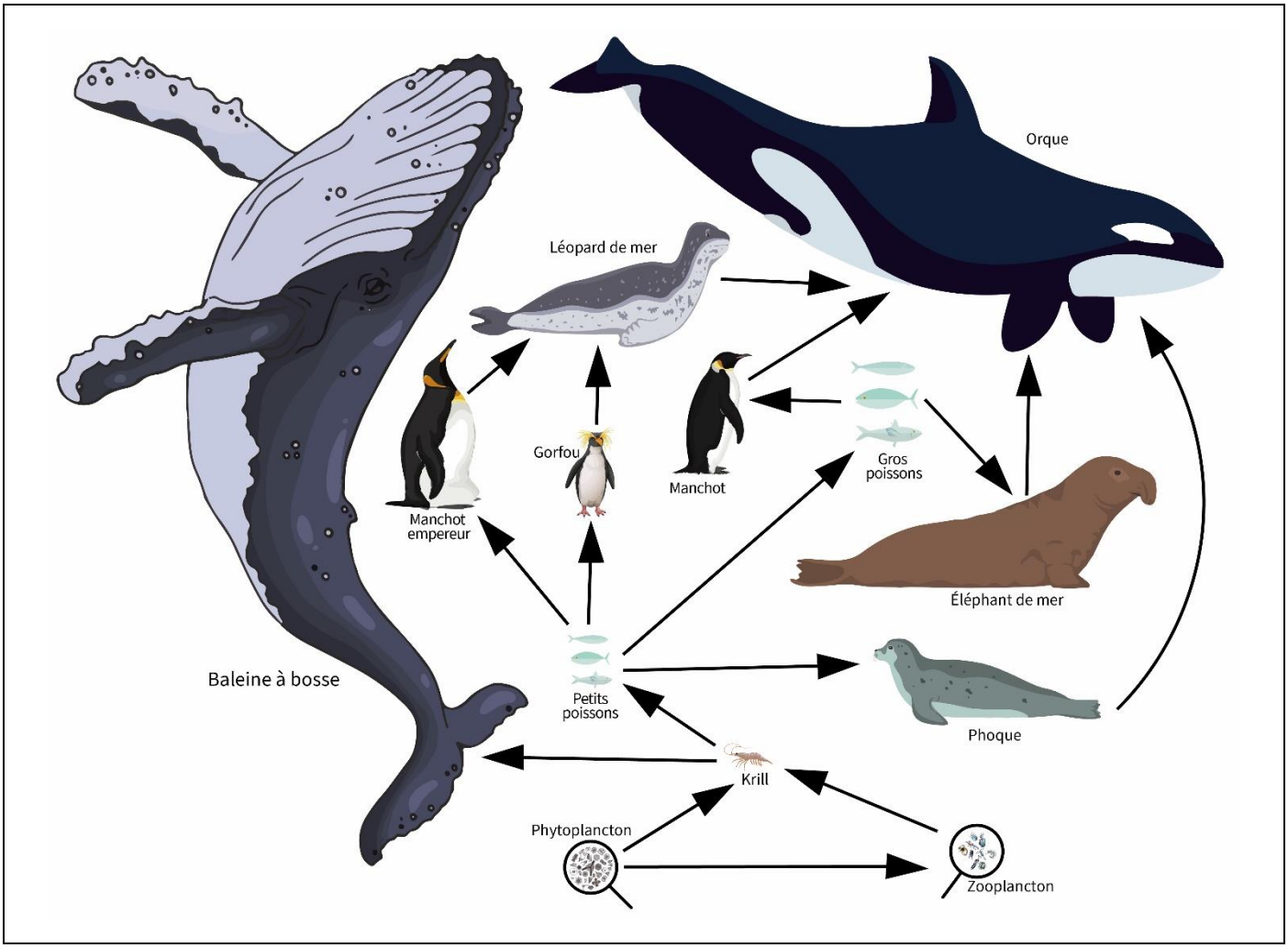

Module 2, chaîne 8

Observe la chaine alimentaire et trouve:

niv 1 repère :	1. un végétal	2. un animal	3. un herbivore	4. un carnivore
	5. un omnivore	6. une proie	7. un prédateur	

niv 2 repère :	1. un producteur	2. un consommateur	3. un phytophage	4. un zoophage
	5. un polyphage	6. une proie	7. un prédateur	8. signification de la flèche
	9. chaîne à 4 maillons	10. maillon commun à deux chaînes	11. deux concurrents	12. milieu

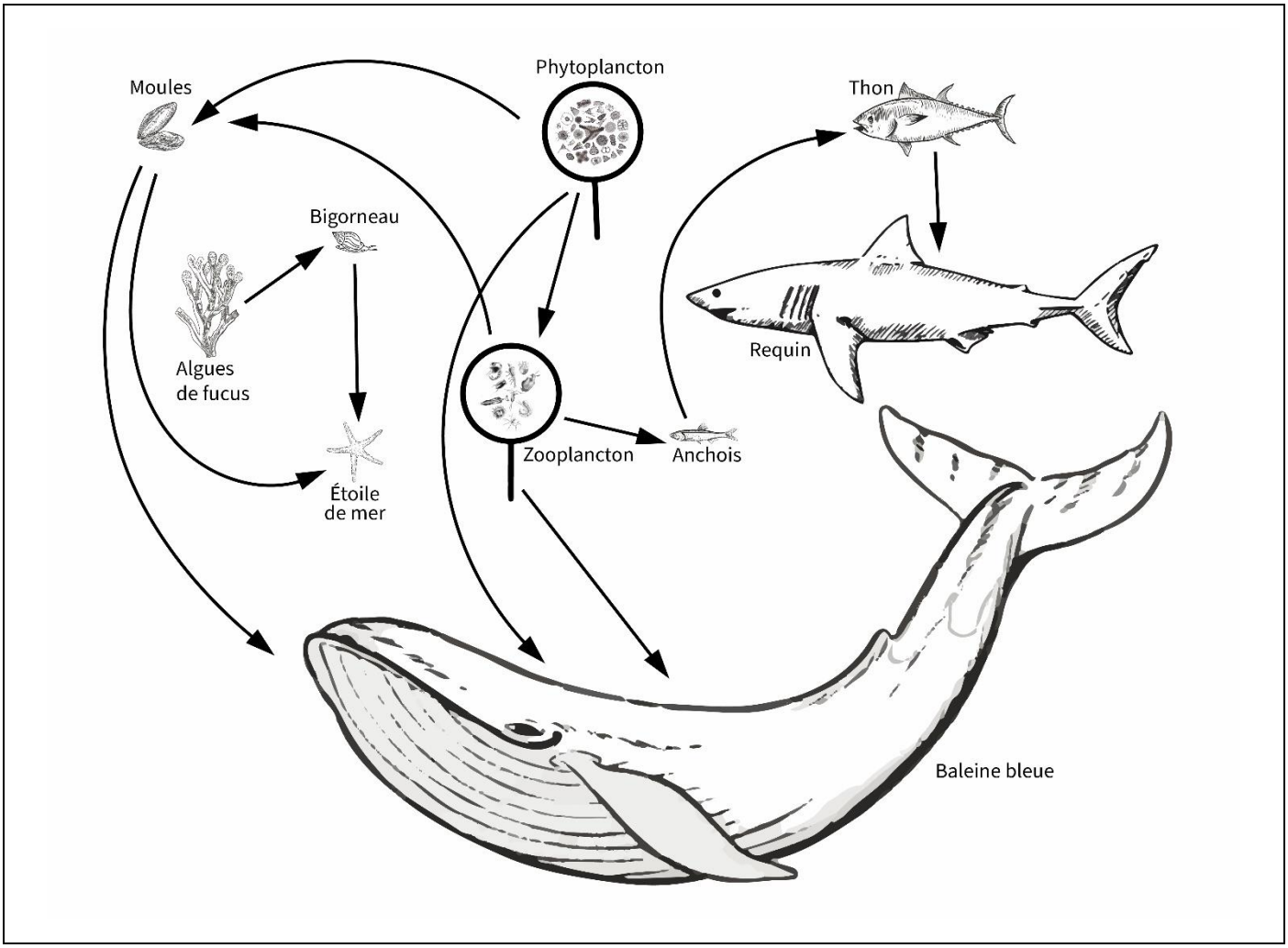

Module 2, chaîne 9

Observe la chaine alimentaire et trouve:

niv 1 repère :	1. un végétal	2. un animal	3. un herbivore	4. un carnivore
	5. un omnivore	6. une proie	7. un prédateur	

niv 2 repère :	1. un producteur	2. un consommateur	3. un phytophage	4. un zoophage
	5. un polyphage	6. une proie	7. un prédateur	8. signification de la flèche
	9. chaîne à 4 maillons	10. maillon commun à deux chaînes	11. deux concurrents	12. milieu

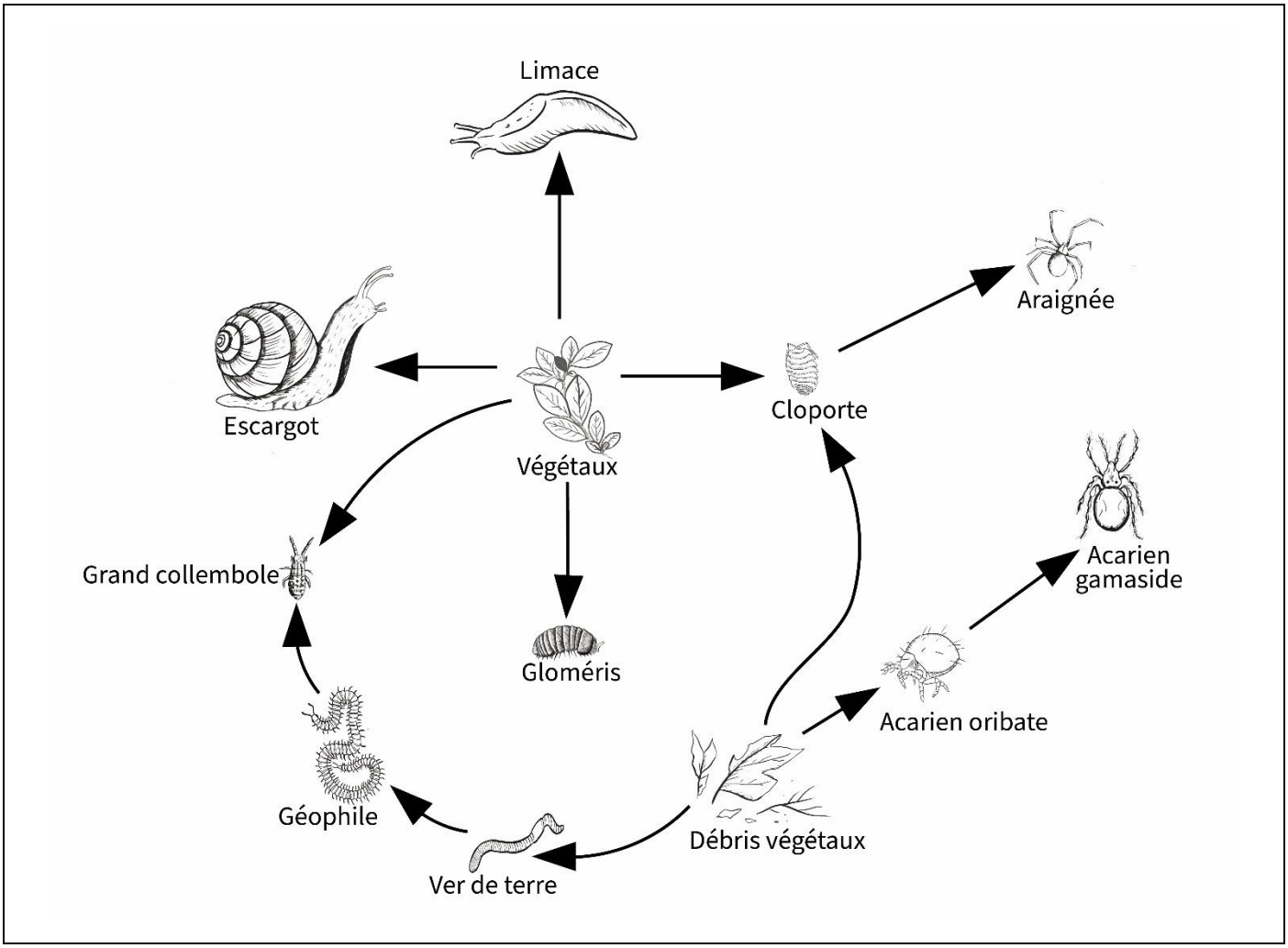

Module 2, chaîne 10

Observe la chaine alimentaire et trouve:

niv 1 repère :	1. un végétal 5. un omnivore	2. un animal 6. une proie	3. un herbivore 7. un prédateur	4. un carnivore

niv 2 repère :	1. un producteur 5. un polyphage 9. chaîne à 4 maillons	2. un consommateur 6. une proie 10. maillon commun à deux chaînes	3. un phytophage 7. un prédateur 11. deux concurrents	4. un zoophage 8. signification de la flèche 12. milieu

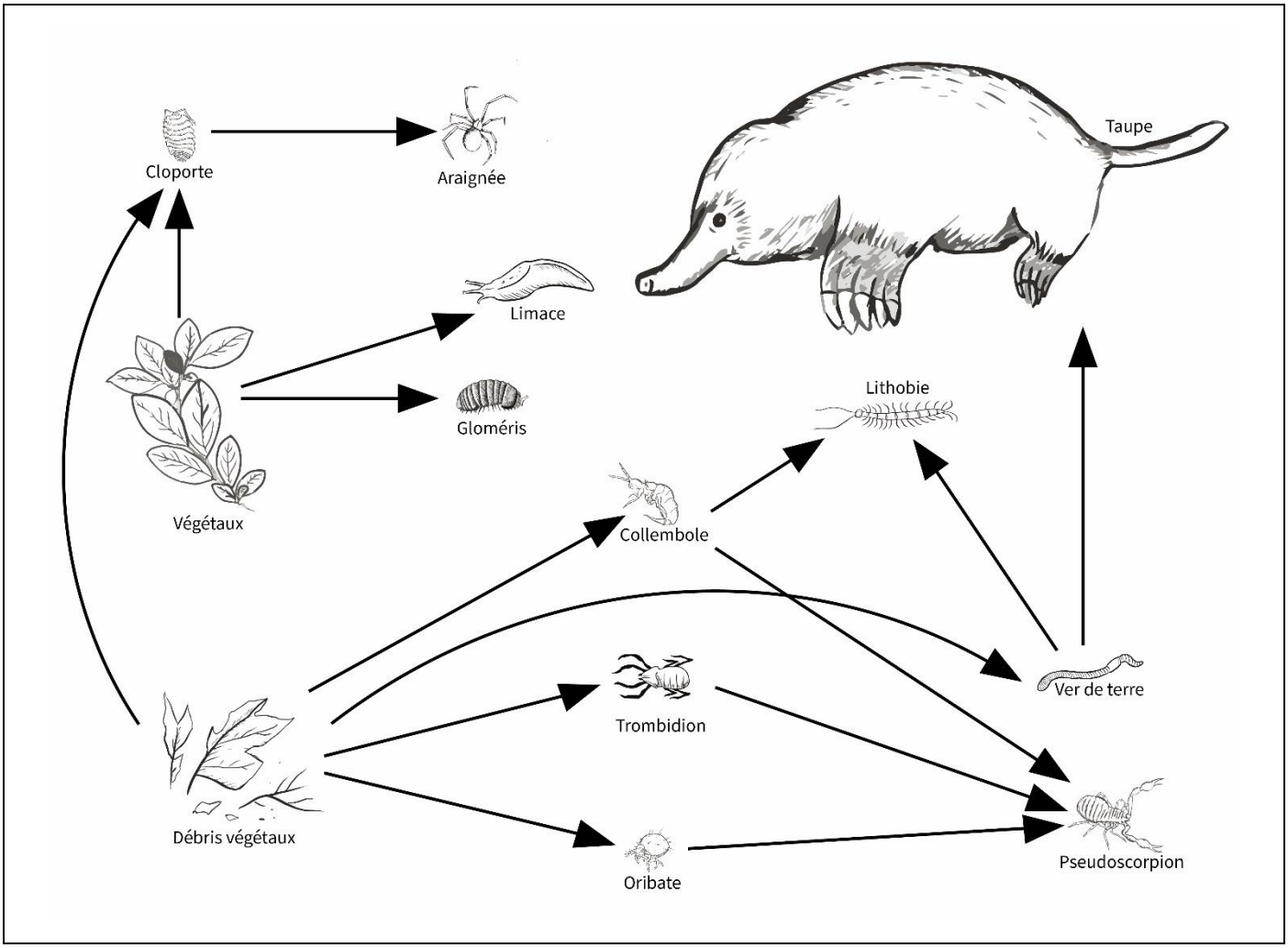

Module 2, chaîne 11

Observe la chaine alimentaire et trouve:

niv 1 repère :	1. un végétal 5. un omnivore	2. un animal 6. une proie	3. un herbivore 7. un prédateur	4. un carnivore

niv 2 repère :	1. un producteur 5. un polyphage 9. chaîne à 4 maillons	2. un consommateur 6. une proie 10. maillon commun à deux chaînes	3. un phytophage 7. un prédateur 11. deux concurrents	4. un zoophage 8. signification de la flèche 12. milieu

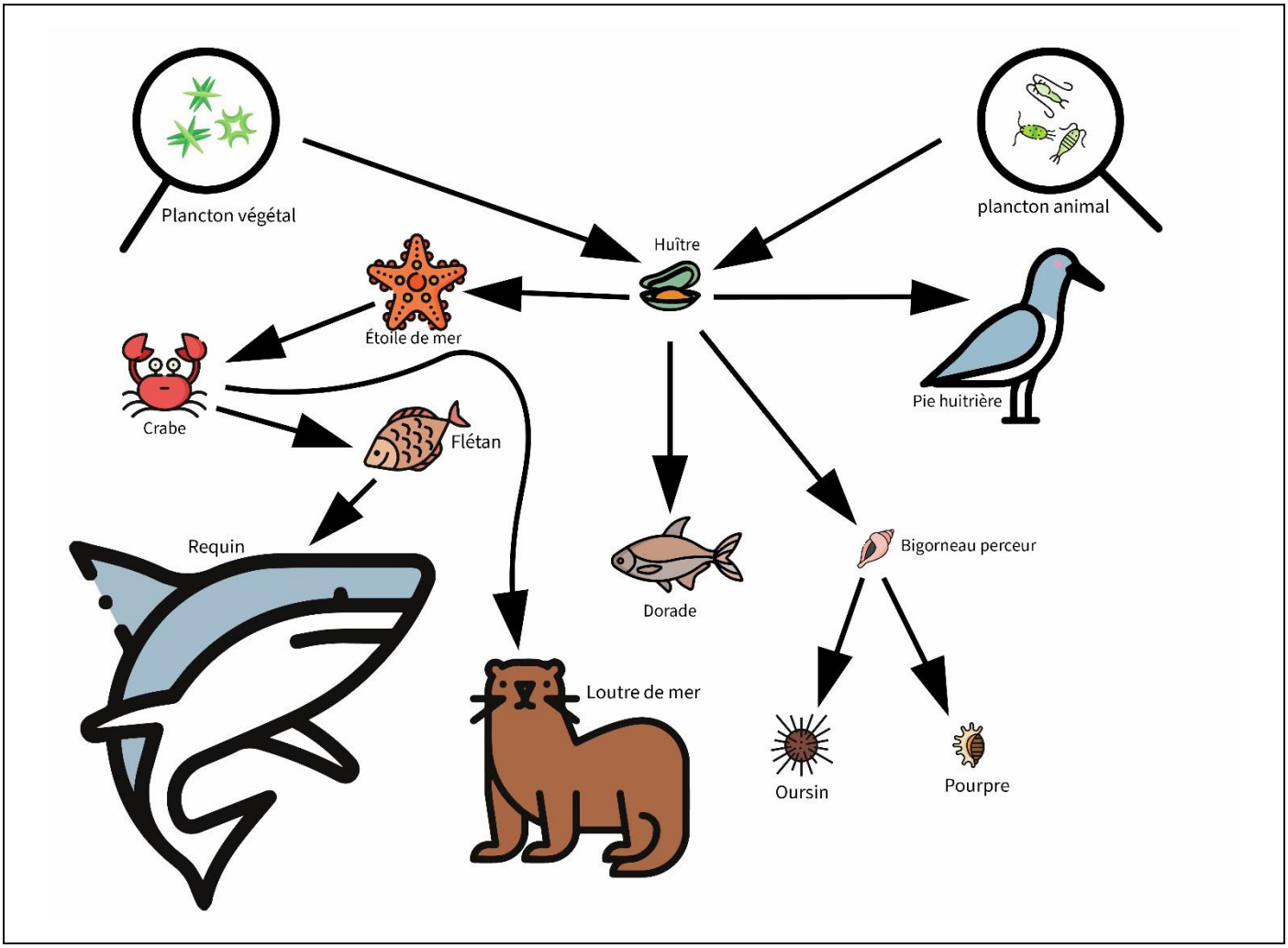

Module 2, chaîne 12

Observe la chaine alimentaire et trouve:

niv 1 repère :	1. un végétal	2. un animal	3. un herbivore	4. un carnivore
	5. un omnivore	6. une proie	7. un prédateur	

niv 2 repère :	1. un producteur	2. un consommateur	3. un phytophage	4. un zoophage
	5. un polyphage	6. une proie	7. un prédateur	8. signification de la flèche
	9. chaîne à 4 maillons	10. maillon commun à deux chaînes	11. deux concurrents	12. milieu

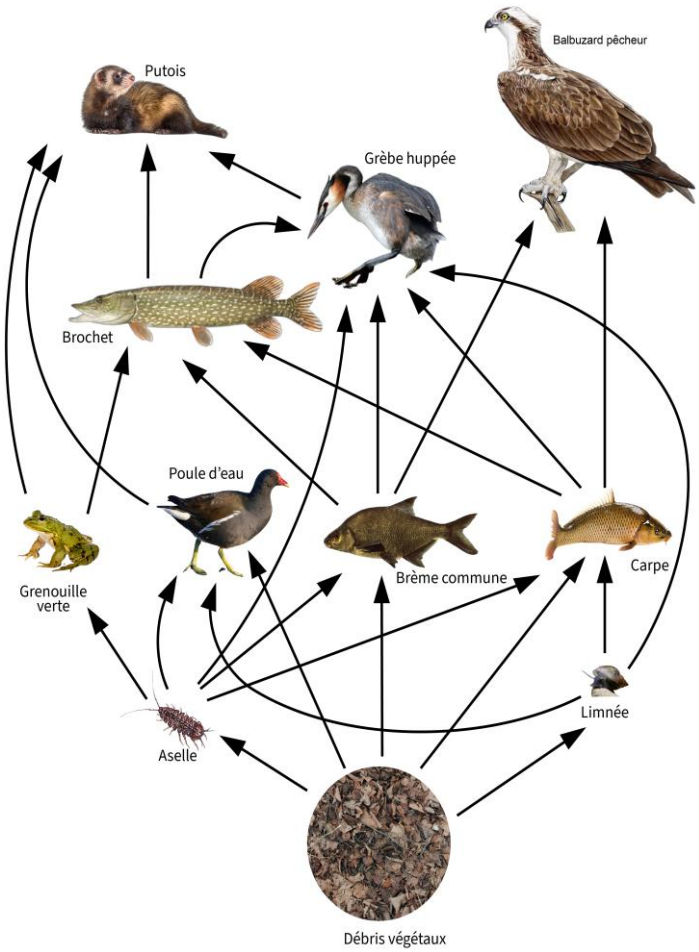

Module 2, chaîne 13

Observe la chaine alimentaire et trouve:

niv 1 repère :	1. un végétal	2. un animal	3. un herbivore	4. un carnivore
	5. un omnivore	6. une proie	7. un prédateur	

niv 2 repère :	1. un producteur	2. un consommateur	3. un phytophage	4. un zoophage
	5. un polyphage	6. une proie	7. un prédateur	8. signification de la flèche
	9. chaîne à 4 maillons	10. maillon commun à deux chaînes	11. deux concurrents	12. milieu

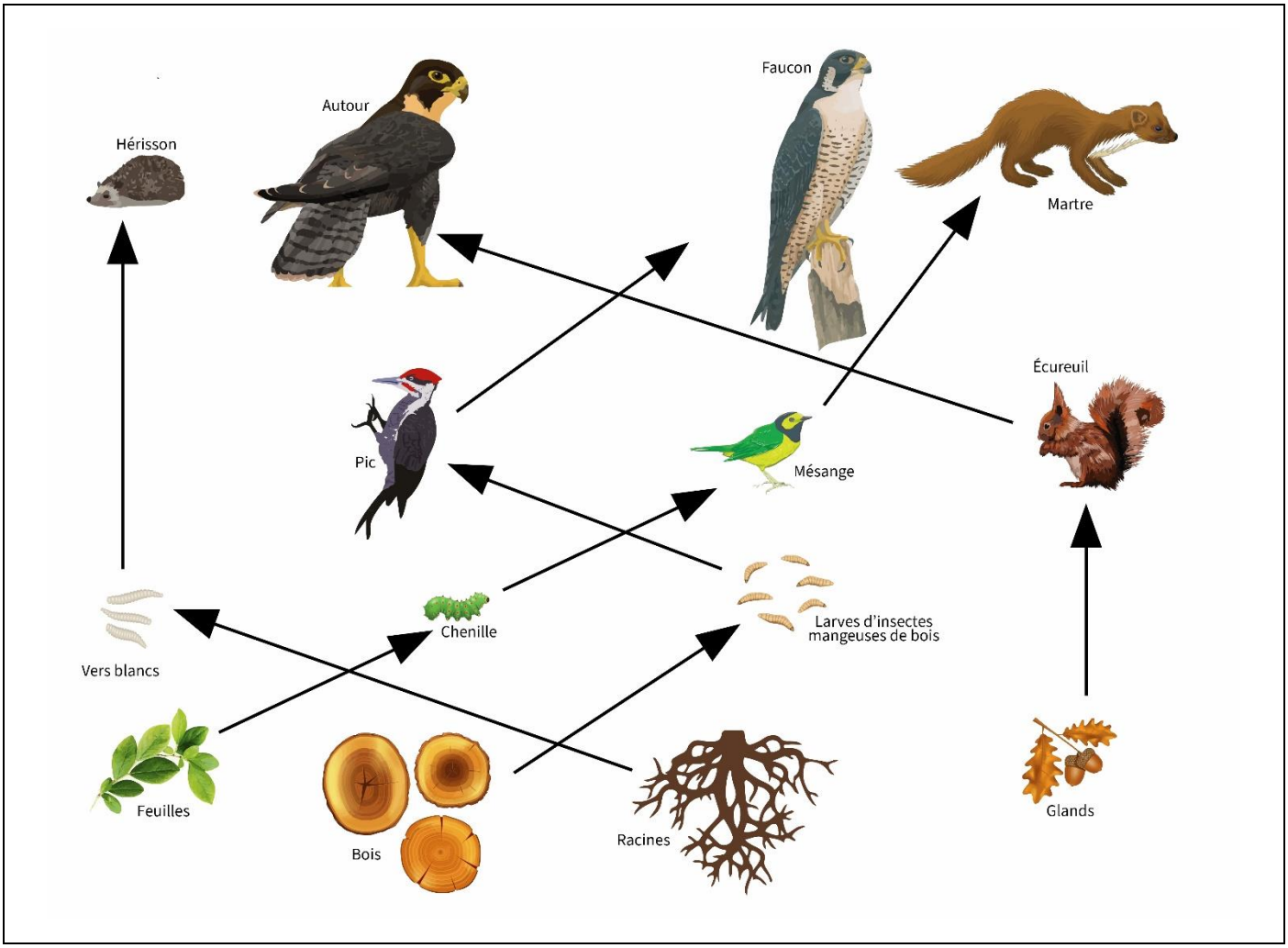

Module 2, chaîne 14

Observe la chaine alimentaire et trouve:

niv 1 repère :	1. un végétal 5. un omnivore	2. un animal 6. une proie	3. un herbivore 7. un prédateur	4. un carnivore

niv 2 repère :	1. un producteur 5. un polyphage 9. chaîne à 4 maillons	2. un consommateur 6. une proie 10. maillon commun à deux chaînes	3. un phytophage 7. un prédateur 11. deux concurrents	4. un zoophage 8. signification de la flèche 12. milieu

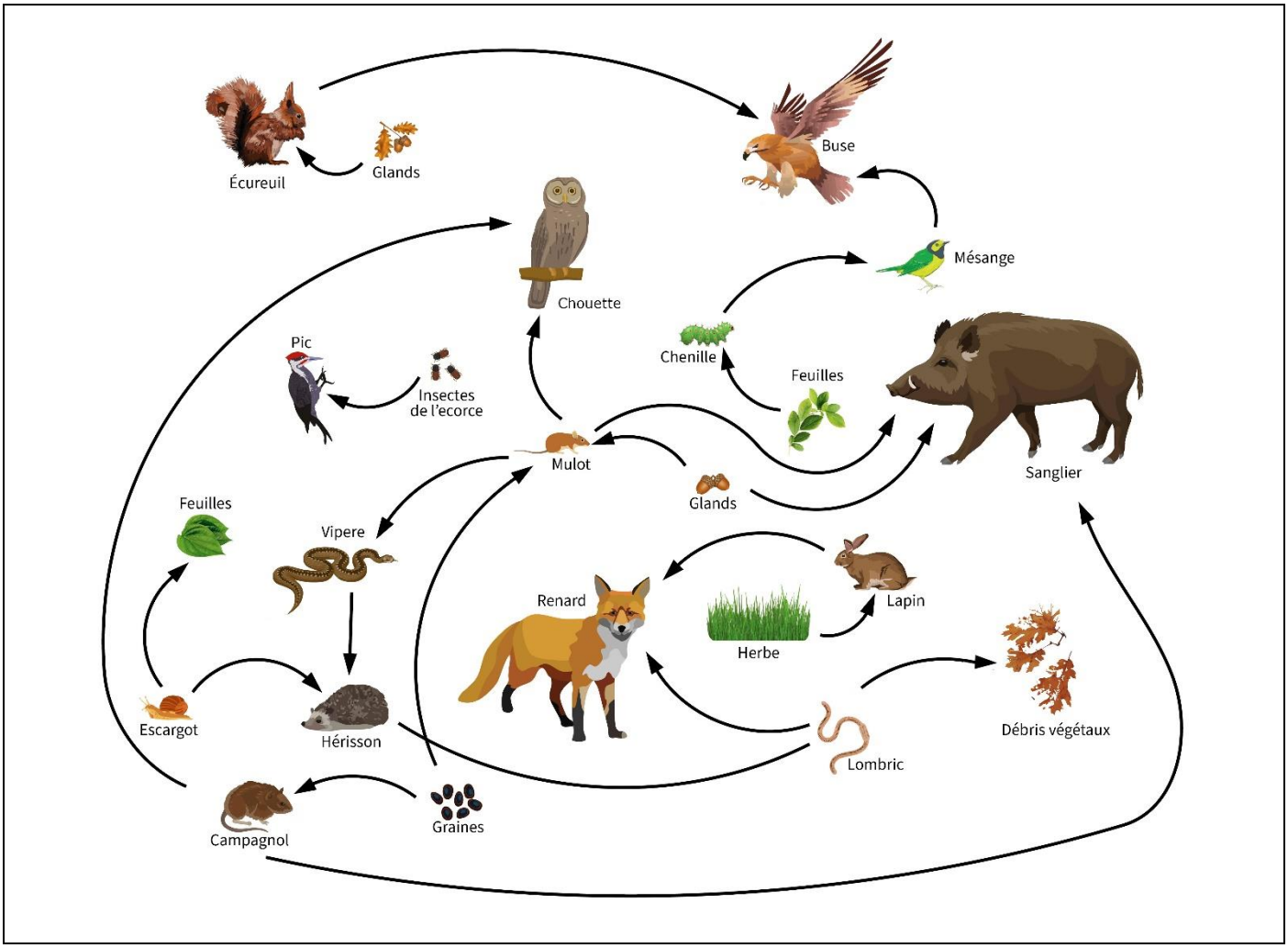

Module 2, chaîne 15

Observe la chaine alimentaire et trouve:

niv 1 repère :	1. un végétal	2. un animal	3. un herbivore	4. un carnivore
	5. un omnivore	6. une proie	7. un prédateur	
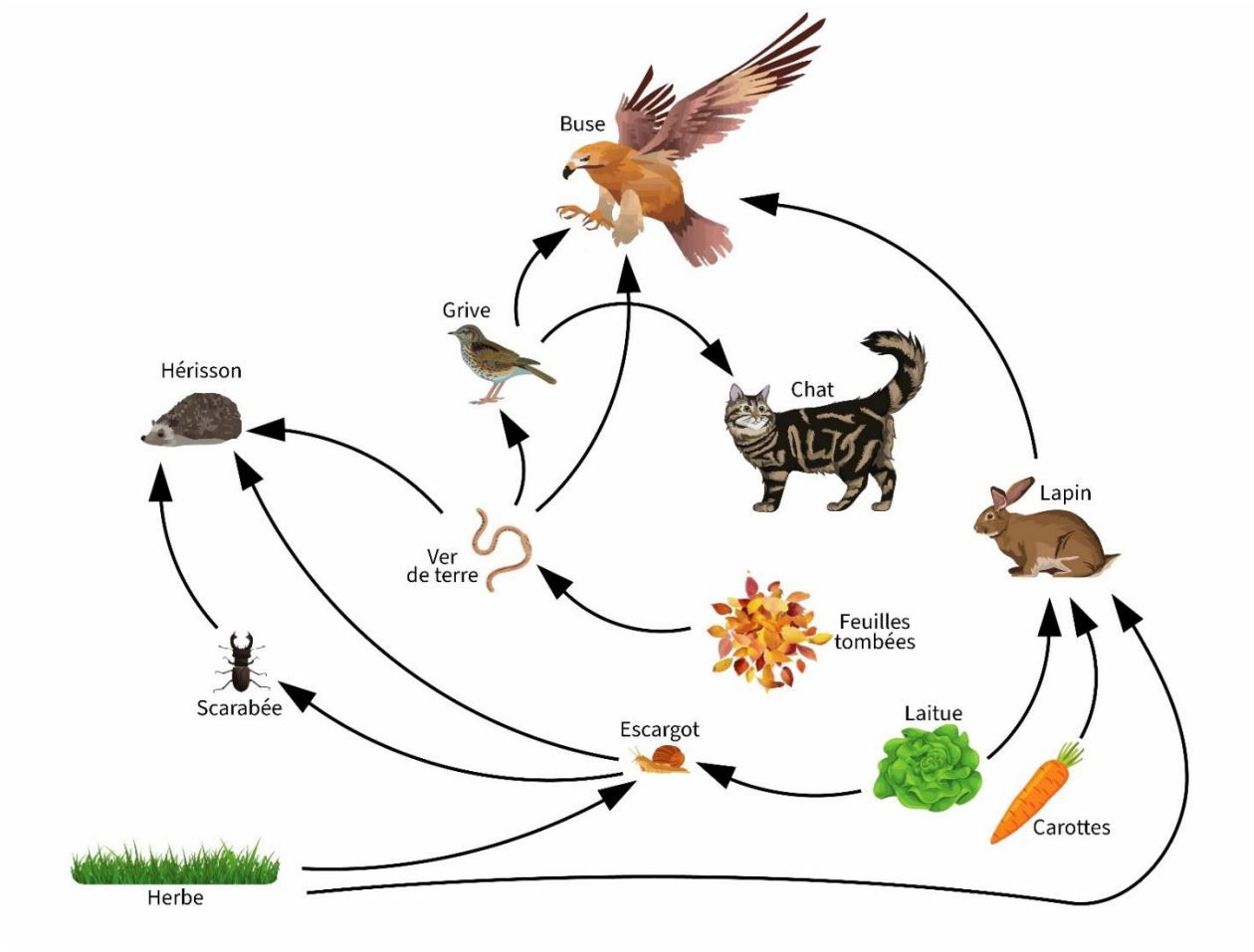
niv 2 repère :	1. un producteur	2. un consommateur	3. un phytophage	4. un zoophage
	5. un polyphage	6. une proie	7. un prédateur	8. signification de la flèche
	9. chaîne à 4 maillons	10. maillon commun à deux chaînes	11. deux concurrents	12. milieu